7 文章記述問題

★1　表Ⅰは，近畿地方の６府県の昼間人口と夜間人口を示したものである。また次の文は表Ⅰから読み取った内容をまとめたものである。文中の(　　)に入れるのに適している内容を,「他府県」「通勤・通学」の**２語**を用いて簡潔に書きなさい。

表Ⅰ　近畿地方６府県の昼間人口と夜間人口

	昼間人口（千人）	夜間人口（千人）	昼夜間人口比率※
滋賀県	1,364	1,413	96.5
京都府	2,656	2,610	101.8
大阪府	9,224	8,839	104.4
兵庫県	5,294	5,535	95.7
奈良県	1,228	1,364	90.0
和歌山県	946	964	98.2

※昼夜間人口比率とは，夜間人口100人当たりの昼間人口のこと。
（平成27年度国勢調査により作成）

６府県のうち，昼間・夜間ともに人口がもっとも多いのは大阪府で，兵庫県がそれに続く。しかしその一方で，大阪府の昼夜間人口比率は100を超えているのに対し，兵庫県は100を下回っている。これは(　　)からだと考えられる。

〔　　〕

2　奈良時代には，朝廷の政策によって国ごとに国分寺や国分尼寺が建てられ，都には金銅の大仏がつくられた。次の文はそのような政策が取られた理由について述べたものである。文中の(　　)に入れるのに適している内容を,「仏教」「国家」の**２語**を用いて簡潔に書きなさい。

聖武(しょうむ)天皇の時代には，疫病や反乱があいついで起こり，社会が不安定な状態になった。そのため聖武天皇や光明(こうみょう)皇后は，国分寺・国分尼寺や大仏をつくらせて(　　)。

〔　　〕

★3　戦国大名の織田信長(おだのぶなが)は，領国の経済を活発にしようとした。右の文は，織田信長が自身の本拠地である安土(あづち)の城下町に出した法令の一部である。この法令から読み取れる内容をもとにして,織田信長がどのような政策によって領国の経済を活発にしようとしたのかを,「独占」「商工業」の**２語**を用いて簡潔に書きなさい。

〔　　〕

一　この安土の町は楽市としたので、いろいろな座は廃止し、さまざまな税や労役は免除する。

4　江戸幕府の老中田沼意次(ろうじゅうたぬまおきつぐ)は，幕府の財政を立て直すために，商工業者に対してどのような政策を行ったか,「株仲間(かぶなかま)」「税」の**２語**を用いて簡潔に書きなさい。

〔　　〕

★★5　幕末になり日本が開国して欧米諸国と貿易を行うようになると，大量の金が日本から流出した。右の表Ⅰは当時の金と銀の交換比率を示したものである。表Ⅰから読み取れる内容をもとにして，幕末になぜ金が流出したのかを，「日本国内」「海外」「交換」の**３語**を用いて簡潔に書きなさい。

表Ⅰ

日本国内での金と銀の交換比率
金１：銀５
海外での金と銀の交換比率
金１：銀15

〔　　〕

★6　1904年２月に始まった日露戦争は，日本が1905年５月の日本海海戦に勝利したことをきっかけに講和会議が開かれた。しかし，当時の日本国民は講和の内容を知るとこれに反対し，東京では日比谷焼き打ち事件と呼ばれる暴動にまで発展した。次の文は，Ａさんがそのような暴動まで発展した理由を，右の図Ⅰと表Ⅰの内容を読み取ってまとめたものである。文中の（　　）に入れるのに適している内容を，「負担」「賠償金」の**２語**を用いて簡潔に書きなさい。

図Ⅰ　日清戦争・日露戦争での死者と戦費

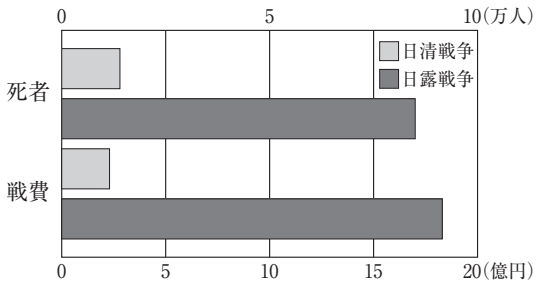

（『日本長期統計総覧』により作成）

日露戦争は，日清戦争と比較して死者の数が多かった。また戦費も日清戦争よりはるかに多く，増税をしたと考えられる。

このように，（　　）ため，国民の間に不満が広がり，日比谷焼き打ち事件のような暴動につながった。

〔　　〕

表Ⅰ

【下関条約のおもな内容】
① 清は朝鮮の独立を認める。
② 清は遼東半島，台湾，澎湖諸島を日本にゆずりわたす。
③ 清は日本に賠償金２億両※を日本に支払う。
※：当時の日本円で約３億1,000万円

【ポーツマス条約のおもな内容】
① ロシアは韓国における日本の優越権をみとめる。
② ロシアは旅順や大連の租借権，長春以南の鉄道利権を日本にゆずる。
③ ロシアは北緯50度以南の樺太（サハリン）を日本にゆずりわたす。

7　日本国憲法の三大原理の一つである国民主権とはどういうことか。「政治」「国民」の**２語**を用いて簡潔に書きなさい。

〔　　〕

8　現在，わが国で三権分立がとられているねらいを，「均衡」「集中」「抑制」の**３語**を用いて簡潔に書きなさい。

〔　　〕

9　所得税や相続税に導入されている累進課税制度とは，どのようなしくみか。「所得」「税率」の**２語**を用いて簡潔に書きなさい。

〔　　〕

10　国債などの公債の発行が，慎重に行われなければならないのはなぜか。「世代」「負担」の**２語**を用いて簡潔に書きなさい。

〔　　〕

11　国際連合総会の決定においては，各国は１票の投票権をもっている。その理由を，「国家」「原則」の**２語**を用いて簡潔に書きなさい。

〔　　〕

12　右の図Ｉは，わが国のGDP（国内総生産）の成長率の推移を表したものである。また，次の文は図Ｉから読み取った内容をＢさんがまとめたものである。

図Ｉ　日本のGDP（国内総生産）成長率の推移

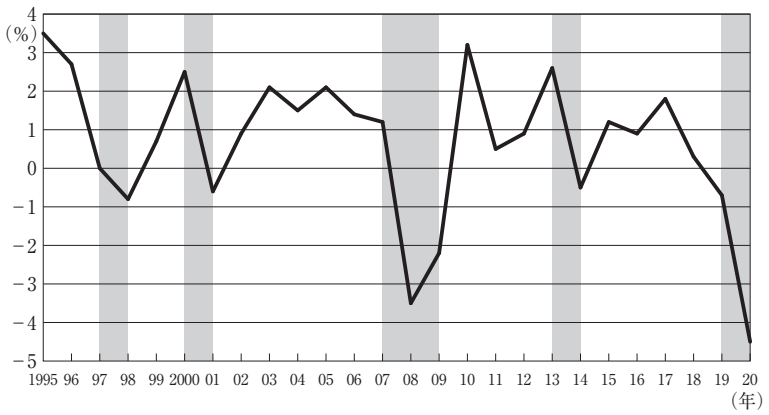

（内閣府資料により作成）

・図Ｉ中の　　で示された期間は，不景気の時期と判断できる。不景気のときは，（　ⓐ　）ことで，GDPの成長率がマイナスとなるからである。
・不景気のとき，景気を安定させるために日本銀行は（　ⓑ　）。これは公開市場操作（オペレーション）と呼ばれ，銀行は資金が増えることで積極的に企業などに貸し出しできるようになる。

★★(1)　文中の（　ⓐ　）に入れるのに適している内容を，「需要」「生産」の**２語**を用いて簡潔に書きなさい。

〔　　〕

★★(2)　文中の（　ⓑ　）に入れるのに適している内容を，「銀行」「国債」の**２語**を用いて簡潔に書きなさい。

〔　　〕

8 資料読解問題

1　表Ⅰは，韓国，ドイツ，シンガポール，ブラジルの国土面積，人口，一人当たり国民総所得(GNI)を示したものである。シンガポール，ブラジルに当たるものを表Ⅰ中の**ア**～**エ**からそれぞれ一つずつ選び，記号を書きなさい。

シンガポール〔　　〕

ブラジル〔　　〕

表Ⅰ　（人口は2020年，その他は2019年）

	面積（千km²）	人口（千人）	一人当たりGNI（ドル）
ア	358	83,784	47,488
イ	100	51,269	32,422
ウ	8,516	212,559	8,523
エ	0.7	5,850	58,187

（『世界国勢図会』2021/22年版により作成）

2　図Ⅰは，とうもろこし，大豆の世界の生産量および輸出量と，それぞれの国別割合を示している。図Ⅰの内容を読み取ったものとして正しいものはどれか。あとの**ア**～**エ**から一つ選び，記号を書きなさい。

図Ⅰ　〔　　〕

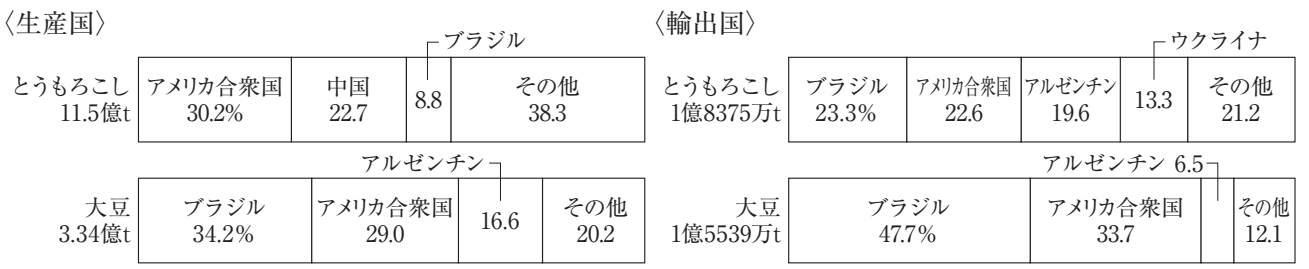

（2019年）（『世界図勢図会』2021/22年版により作成）

ア　アメリカ合衆国のとうもろこしの生産量と輸出量の差は，約３億ｔである。

イ　上位３か国の生産量の合計が全体に占める割合は，大豆もとうもろこしも約75％である。

ウ　総生産量に占める総輸出量の割合が高いのはとうもろこしのほうで，約12％である。

エ　とうもろこし，大豆とも，生産量の上位３か国が，輸出量の上位３か国となっている。

3　表Ⅰは，新潟県，長野県，静岡県，大阪府の人口，米の収穫(しゅうかく)量，レタスの収穫量，漁業生産量を示したものである。右の文は，静岡県を除く３府県のようすをまとめたものである。新潟県，長野県，大阪府に当たるものを表Ⅰ中の**ア**～**エ**からそれぞれ一つずつ選び，記号を書きなさい。

新潟県〔　　〕　長野県〔　　〕　大阪府〔　　〕

表Ⅰ　（漁業生産量は2018年，その他は2020年）

	人口（千人）	米の収穫量（千ｔ）	レタスの収穫量（ｔ）	漁業生産量（ｔ）
ア	2,202	667	不詳	30,977
イ	8,843	22	468	不詳
ウ	2,050	193	182,200	1,716
エ	3,635	74	25,900	200,549

（『データでみる県勢』2022年版などにより作成）

・新潟県は越後(えちご)平野を中心に稲作がさかんであり，北海道と１位２位を争う生産量となっている。
・長野県は冷涼(れいりょう)な気候を利用した野菜の抑制栽培(よくせいさいばい)がさかんに行われている。
・大阪府は，東京都・神奈川県に次いで全国で第３位の人口である。

★4　図Ⅰは，2007年におけるアメリカ合衆国(アラスカ州とハワイ州を除く)の移民系の人々の州別割合を示したものであり，図Ⅱは，アメリカ合衆国の人口構成を示したものである。図Ⅰと図Ⅱ中のA，Bにはそれぞれ同じ語が当てはまる。図Ⅰ及び図Ⅱの内容を読み取ったものとして正しいものはどれか。あとのア～エから一つ選び，記号を書きなさい。　〔　　〕

図Ⅰ　アメリカ合衆国の民族分布

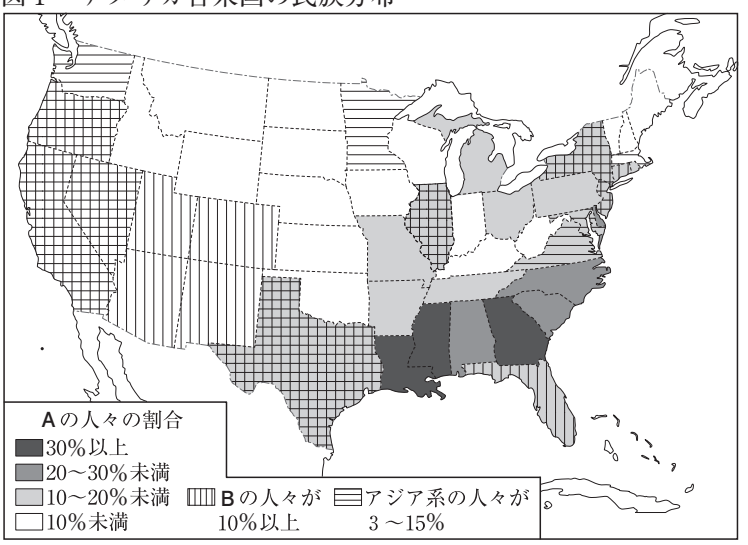

(『現代アメリカデータ総覧2009』により作成)

図Ⅱ　アメリカ合衆国の人口構成

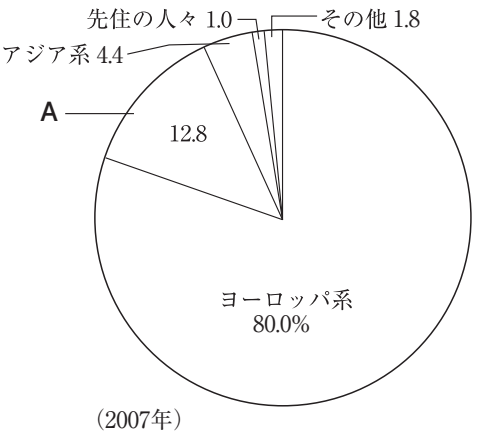

(2007年)
総人口(3億162万人)のうち15.1%がB

(『現代アメリカデータ総覧2009』により作成)

・Aはかつて労働不足を補うために利用された他の大陸から来た人々の子孫などである。
・Bはスペイン語を話すラテンアメリカ系の人々である。

ア　アフリカ系の人々は，総人口の12.8%であり，アフリカ系の人々の割合が20%以上の州は四つある。
イ　アフリカ系の人々の割合が10%未満，アジア系の人々の割合が3～15%の州は，アメリカ東部に集まっている。
ウ　ヒスパニックは，総人口の12.8%であり，メキシコに接する州で10%以上の割合となっている。
エ　アフリカ系の人々の割合が20%以上の州は，ヒスパニックの割合は10%未満である。

5　図Ⅰは，日本，イギリス，エチオピアの年齢別の人口構成を示したものである。次の文は，図Ⅰから読み取った内容をまとめたものである。(　　)に入れるのに適している内容を，「高齢(こうれい)者」「子ども」の**2語**を用いて簡潔に書きなさい。

図Ⅰ　年齢別の人口構成

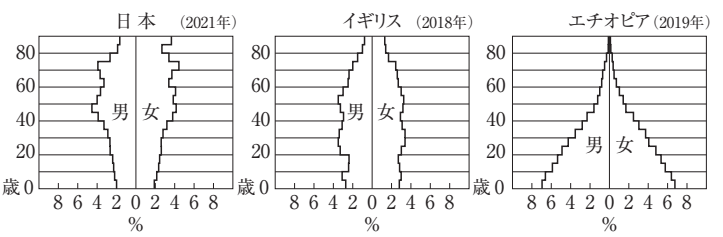

(『データブック オブ・ザ・ワールド2022』により作成)

日本とイギリスの人口構成は，エチオピアの人口構成に比べ，(　　)。

〔　　〕