8 A 日本の特色と地域区分(4)　資源・エネルギー・産業・結びつき①

氏名　　組　　番　　得点　　／50

1 〈資源・エネルギー〉　次の文中の□にあてはまる語句を答えなさい。

(1)　原油の埋蔵量は，アジア州のうち，サウジアラビアなどが位置する□アジアに多い。

(2)　資源やエネルギーの大量の生産や消費により地球全体の気温が上昇する□が起こり，気候変動などに大きな影響を与えていると考えられている。

(3)　将来も考え，資源を有効に利用しながら，環境保全と経済発展を両立させることを目指した社会を□という。

(4)　□はウランやプルトニウムを燃料とし，核分裂で発生した熱を利用する発電のことである。

(5)　風力や太陽光，地熱など，資源が枯れることなく，環境を汚さずくり返し使えるエネルギーを□という。

1　（各4点×5）

(1)	
(2)	
(3)	
(4)	
(5)	

2 〈産業活動〉　次の問いに答えなさい。

(1)　農業や林業，水産業など，直接自然にはたらきかけて生産を行う活動は，第何次産業に分類されるか。

(2)　製造業や建設業，鉱業など，原材料を利用して製品を生産する活動は，第何次産業に分類されるか。

(3)　(1)，(2)に含まれない運輸業や金融業，商業などは，第何次産業に分類されるか。

(4)　貿易の際にかかる関税を低くするなど，貿易に対する制限をやめることを何というか。

(5)　貿易を行う国の間に発生するさまざまな問題を何というか。

(6)　関東地方の南部から九州地方の北部にかけて広がっている，工業の盛んな地域を何というか。

(7)　海外へ工場を移転することにより，国内の工業生産がおとろえることを何というか。

2　（各3点×7）

(1)	
(2)	
(3)	
(4)	
(5)	
(6)	
(7)	

3 〈交通・通信による結びつき〉　次の問いに答えなさい。

(1)　他の国々と物やサービスを売り買いすることを何というか。

(2)　(1)を行うとき，重要な交通手段となっているのは航空交通と何交通か。

(3)　日本の高速交通網として挙げられるものは，高速道路や空港のほかに何があるか。

3　（各3点×3）

(1)	
(2)	交通
(3)	

8 B 日本の特色と地域区分(4)　資源・エネルギー・産業・結びつき①

氏名	組　　番	得　点
		／50

1 次の地図とグラフを見て，あとの問いに答えなさい。

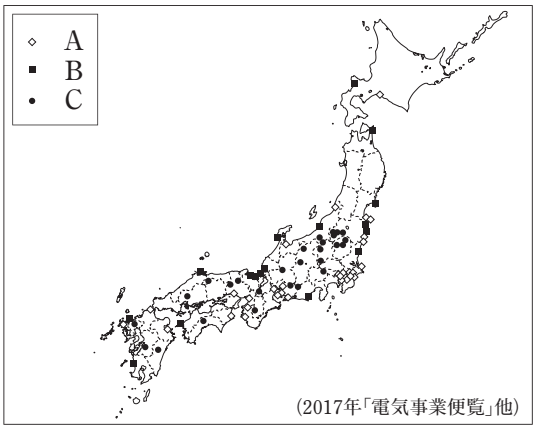

(2017年「電気事業便覧」他)

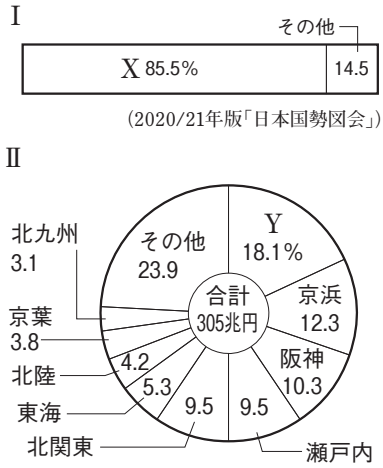

(2020/21年版「日本国勢図会」)

(「工業統計表」)

(1)　地図中のA〜Cの発電所の種類を，それぞれ答えなさい。

(2)　グラフⅠは，日本の発電エネルギー源の割合を示している。Xにあてはまる発電の発電所を地図中のA〜Cから選び，記号で答えなさい。

(3)　グラフⅡは，日本の工業地帯・地域別の工業出荷額の割合を示している。これを見て，次の問いに答えなさい。

①　Yにあてはまる工業地帯・地域名を答えなさい。

②　京浜工業地帯の工業出荷額は，約何兆円か。小数第1位を四捨五入して，整数で答えなさい。

(4)　日本やアメリカ合衆国，ドイツなどの先進国に共通する産業別の人口構成の特徴を，「第一次産業」「第三次産業」の語句を使って説明しなさい。

1　(各5点×7)

(1)	A
	B
	C
(2)	
(3)	①
	②約　　兆円
(4)	

2 右の資料を見て，次の問いに答えなさい。

(1)　右の資料は，国内の貨物輸送量の移り変わりを示している。AとCにあてはまるものを次から選び，記号で答えなさい。

ア　鉄道　　イ　自動車

ウ　船舶



(国土交通省資料)

(2)　現在の日本の貨物輸送について述べたものとして，誤っているものを次から1つ選び，記号で答えなさい。

ア　高速道路などの整備にともなって，輸送時間が短くなってきている。

イ　過疎地域では鉄道路線が廃止されるところが出てきている。

ウ　軽くて高価なものの輸送に船舶が主に利用されている。

エ　通信販売の伸びなどにより，トラック輸送の運転手が不足している。

2　(各5点×3)

(1)	A
	C
(2)	